GAZETA MATEMATICĂ Junior

CONCURS • Etapa I – 30 ianuarie 2018

SUBIECTE
CLASA PREGĂTITOARE

Timp de lucru – 60 de minute

Nume: _____

Prenume: _____

Clasa: _____

Școala: _____

A.

1. Încercuieți fructul care urmează în fiecare șir.

....

....

2. Completați careurile astfel încât niciun număr să nu se repete pe verticală sau pe orizontală.

9		5
3	5	
5		

B.

3. În careurile de mai jos sunt scrise numerele de la 0 la 10.

Observați imaginile, apoi scrieți în casete numerele ascunse sub legumele din fiecare careu.

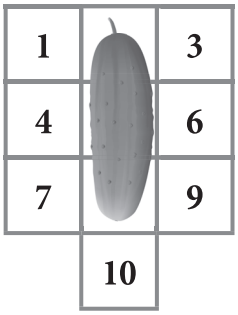





4. Dorina pictează felicitări pentru fiecare membru al familiei. Dacă ar mai picta 4, ar avea 7 felicitări.

Câte felicitări a pictat?

C.

5. Fiecare formă geometrică ascunde câte un număr. Scrieți cifre în formele geometrice corespunzătoare descompunerii corecte a numărului 9.

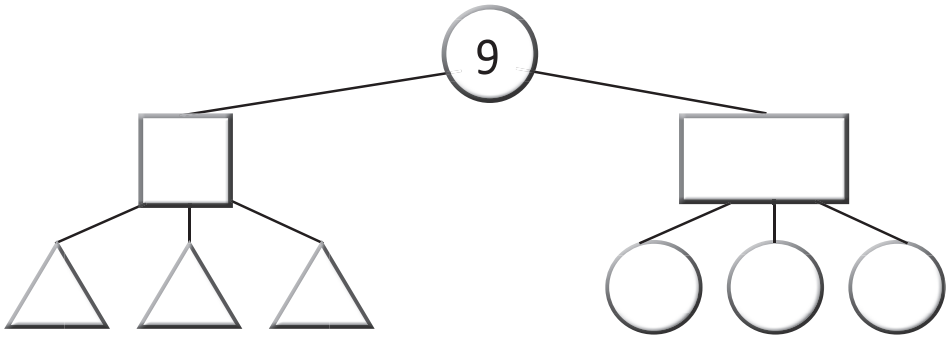

6. Ana are mai multe păpuşi decât are Mia, dar are mai puţine decât are Lia.

Scrieți numele fetei care are cele mai puţine păpuşi.

SUCCES!

• *Toate subiectele sunt obligatorii.*